PRUEBA DE ACCESO A LA UNIVERSIDAD
MAYORES DE 25 AÑOS

PRUEBA ESPECÍFICA
PRUEBA 2010

GEOGRAFÍA

PRUEBA

SOLUCIONARIO

Aclaraciones previas

Tiempo de duración de la prueba: 1 hora.

1. Localiza en el mapa las principales unidades de relieve de la Península Ibérica (montes, macizos, cordilleras, sierras, sistemas, depresiones, submesetas). (3 puntos.)

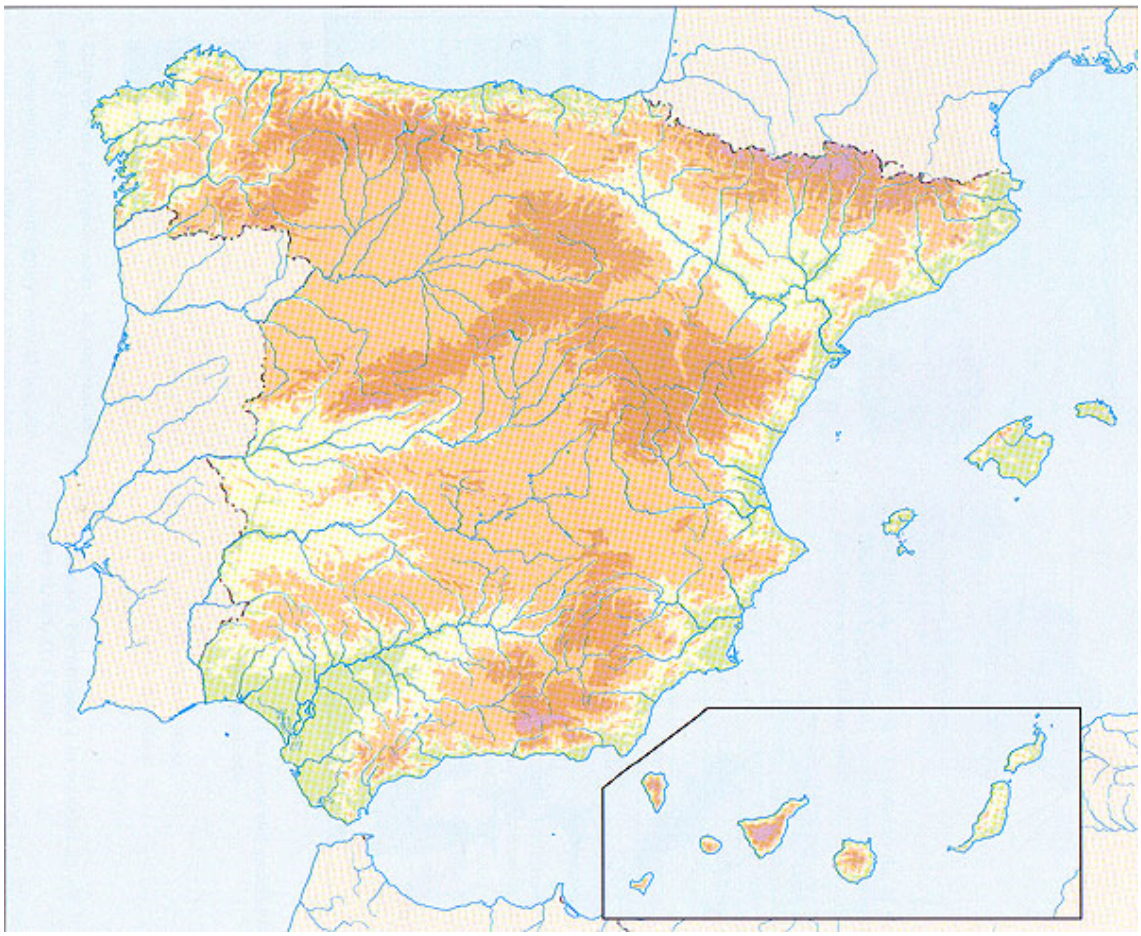

2.- Elige y contesta a una de estas dos preguntas. (3 puntos.)

A.- Los movimientos migratorios en España.

- Causas y consecuencias
- Migraciones interiores
- Migraciones exteriores
- Inmigración extranjera

B.- Espacios agrarios, ganadería y explotación forestal en Euskal Herria.

3.- Define los siguientes conceptos. (elige 3) (1 punto.)

- Aparcería
- Inflación
- Pesca de altura
- Centro urbano histórico
- Crecimiento natural de la población
- Penillanura

4.- A la vista de la tabla y el gráfico adjuntos contesta a las siguientes cuestiones: (3 puntos.)

a) Comenta la tendencia del índice de mortalidad. ¿Podrías explicar por qué se eleva en los años finales?
b) Comenta la tendencia del índice de natalidad. ¿Podrías explicar por qué se produce una caída pronunciada a partir de 1975?
c) Comenta la evolución del crecimiento vegetativo a lo largo del periodo y haz un pronóstico razonado para los próximos años.

Evolución de los índices de natalidad y mortalidad en España.

Año	Índice de natalidad *	Índice de mortalidad *
1940	24,3	16,5
1945	22,8	12,1
1950	20,0	10,8
1955	20,4	9,2
1960	21,6	8,6
1965	21,1	8,4
1970	19,5	8,3
1975	18,8	8,4
1980	15,0	7,9
1985	11,9	8,1
1990	10,3	8,6
1995	9,3	8,8
2000	9,9	9,0

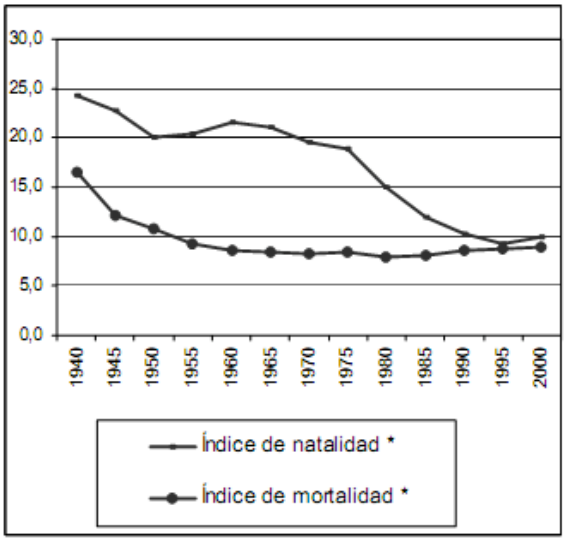

- En tanto por mil.

SOLUCIONARIO GEOGRAFÍA
(Mayo 2010)

Tiempo de duración de la prueba: 1 hora.

1. **Localiza en el mapa las principales unidades de relieve de la Península Ibérica (montes, macizos, cordilleras, sierras, sistemas, depresiones, submesetas).**

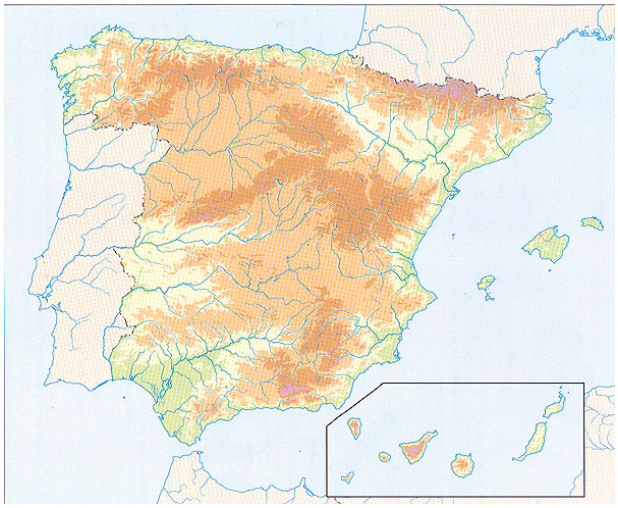

Respuesta:

2.- Elige y contesta a una de estas dos preguntas.

A.- Los movimientos migratorios en España.
- **Causas y consecuencias**
- **Migraciones interiores**
- **Migraciones exteriores**
- **Inmigración extranjera**

B.- Espacios agrarios, ganadería y explotación forestal en Euskal Herria.

Respuesta:

A.- Los movimientos migratorios en España.

En España los movimientos migratorios constituyen uno de los fenómenos demográficos más característicos del comportamiento de su población, tanto los movimientos migratorios interiores como los exteriores han sido importantes y han influido decisivamente en su historia.

Dentro de los movimientos migratorios, son los interiores (los que se producen dentro del país) los que tienen mayor significación cuantitativa, sus causas son fundamentalmente económicas (desempleo, presión demográfica, necesidad de mano de obra...) por lo que son un reflejo de la situación del país y por ello son los responsables de los desequilibrios regionales.

Existen varios tipos de migraciones interiores en función del tiempo y de los lugares de destino.
Las estacionales o temporales tienen una duración limitada y generalmente un carácter cíclico (épocas de recolección de productos agrarios); las definitivas o de larga duración pueden ser de varias clases, la más importante es la emigración del campo a la ciudad por la mecanización de las tareas agrícolas, pero también pueden ser interurbanas, inter-rurales o suburbanas; por último, las migraciones interiores pendulares, producidas entre el centro y la periferia se producen por cuestiones laborales o de ocio, están incrementándose actualmente no sólo por el crecimiento de las ciudades sino también por la aparición de grandes empresas turísticas de ocio.
Para analizar las causas y las diferencias entre ellas es necesario tener en cuenta el tiempo en el que se producen y en este sentido podemos hacer tres apartados bien diferenciados:

- Éxodo rural, desde 1960 a 1975, este movimiento se produce de forma masiva al mismo tiempo que se desarrollan las áreas metropolitanas. El año 1964 es el que tiene la cifra de emigrantes más alta de todo el período, en estos años aparecen sólo 15 provincias con saldos positivos y 35 con negativos. Este

dato refleja la fuerte concentración en los destinos y una gran diversificación en la procedencia en la que destacan aún provincias de actividades agrarias y amplio crecimiento demográfico. Como focos inmigrantes destacan Barcelona y las provincias mediterráneas; en el interior Madrid, Álava y Zaragoza que aparecen ya como ciudades con una gran variedad de actividades económicas –entre ellas aparece ya el turismo- y una amplia área de influencia. Éstas son migraciones de carácter definitivo.

- Movimientos de retorno, desde 1975 hasta 1985. A partir de 1975 disminuye el éxodo rural y comienza a manifestarse una crisis de crecimiento en las grandes metrópolis al tiempo que aumenta la atracción de las ciudades medias. La causa es la crisis económica de 1975 que provoca cambios en las corrientes migratorias por el retorno de los emigrantes a sus lugares de origen y el aumento de las migraciones interurbanas. Aumenta el número de provincias con saldo positivo, las áreas de mayor atracción son provincias inmigratorias de segunda generación (Tarragona, Gerona, Alicante, Castellón, Álava, Navarra o Zaragoza), otras tienen saldos positivos por retornos; en cambio, Barcelona, Bilbao y Guipúzcoa se convierten en zonas de emigración, Madrid lo hará unos años después al ser su industria más diversificada.
En general hay un reparto del saldo positivo y una concentración del negativo al invertirse la tendencia migratoria. También han cambiado las características del emigrante, antes se trataba generalmente de personas jóvenes y solteras que pasaban del sector primario al secundario, ahora el movimiento afecta a toda la familia que pasa del secundario de la gran ciudad al terciario de la capital de provincia.

- Desarrollo de las migraciones intraprovinciales a partir de 1985, sin que esto signifique que desaparezcan las interprovinciales. Las causas son la movilidad tanto de profesionales que se desplazan de áreas económicas más desarrolladas a ciudades de cierta entidad, como de jubilados y prejubilados afectados por los procesos de reconversión que emigran desde las áreas industriales a las de origen. Actualmente también se está desarrollando una emigración suburbana del centro a la periferia apoyada por la mejora de los sistemas de transporte lo que ha ocasionado un gran desarrollo de ciudades-dormitorio y todo tipo de áreas residenciales, estos movimientos pendulares son de gran importancia en ciudades como Bilbao, Madrid y Barcelona.

Actualmente la inmigración interna, tan importante en los años 50 y 60, ha desaparecido en el País Vasco y se basa en la llegada de ciudadanos extranjeros (Europa oriental, África y Sudamérica), aunque en un porcentaje inferior a la que se produce en otras comunidades autónomas.

En relación a las migraciones exteriores hay que destacar que España ha sido tradicionalmente
un país de emigrantes: la falta de recursos, el crecimiento acelerado de la población desde mediados del siglo XIX, el retraso industrial, y después de la

Guerra Civil la dictadura, propiciaron la salida de población. Sin embargo, actualmente (sobre todo a partir de los años 70) se ha invertido la tendencia y España se ha convertido en un país que recibe población de otros países europeos y, sobre todo, de los países en vías de desarrollo.

Entre las causas hay que destacar en primer lugar la situación económica y política de España que la convierte desde 1978 en un país democrático y estable desde el punto de vista político, y al mismo tiempo, en su desarrollo económico especialmente desde su entrada en la Unión Europea.
Los países de origen han ido cambiando, en los años 70 predominaban los iberoamericanos debido a la inestabilidad política provocada por los gobiernos dictatoriales y a los lazos culturales que nos unen con Iberoamérica, en los 80 aumentó la llegada de población procedente de Irán e Irak por la guerra que enfrentó a ambos países, después de la caída del muro de Berlín y de la desaparición de la URSS se produjo un incremento de la llegada de población de los países de la Europa del Este por la desestructuración económica de estas regiones.
La guerra de Bosnia también supuso el aumento de los inmigrantes de la antigua Yugoslavia. Actualmente tienen bastante importancia los inmigrantes procedentes de África, sobre todo los procedentes de los países del Magreb como Marruecos y Argelia, países ambos con un gran crecimiento de la población y por tanto con un número elevado de jóvenes en edad de trabajar, y con unas tasas de paro muy elevadas por el retraso económico y la desestructuración producida por la globalización, además de los problemas políticos inherentes al desarrollo del fundamentalismo islámico especialmente problemático en Argelia.

Los inmigrantes que residen en España se pueden clasificar en tres grupos en función de su situación: los que obtienen la nacionalidad tras años de residencia y son considerados españoles de pleno derecho, los que obtienen un permiso de residencia manteniendo su nacionalidad de origen (son los que tienen permiso de trabajo, los refugiados políticos y los familiares de ambos), y los llamados inmigrantes “ilegales”, los “sin papeles”, que jurídicamente no existen y son, por ello, difíciles de cuantificar. La mayor parte de los inmigrantes extranjeros reconocidos proceden de países europeos: Alemania, Francia, Portugal y el Reino Unido; en segundo lugar destacan los latinoamericanos, y en último lugar estarían los norteafricanos.

Las comunidades en las que hay mayor cantidad de residentes extranjeros son las que ofrecen mayor cantidad de oportunidades para trabajar como Madrid y Cataluña, seguidas de Andalucía, la Comunidad Valenciana y las Islas Canarias. Las actividades económicas que realizan se concentran en el sector primario (especialmente en la agricultura) y en el terciario (la construcción y el servicio doméstico).

Entre las consecuencias hay que diferenciar las que se producen en los países de origen que son la pérdida de una parte importante del sector de la población que está mejor preparado y en edad de reproducirse, la despoblación de algunas áreas, y el retraso en los posibles cambios económicos o políticos al salir la población que podría presionar para que éstos se produjesen.
Pero también se producen otras consecuencias positivas como la llegada de divisas que ayuda a la reactivación de las economías tanto familiares como del país en general. En cuanto al país de destino, en este caso España, hay que señalar en primer lugar las consecuencias positivas como la llegada de mano de obra barata que ocupa los puestos de trabajo peor considerados por los españoles, en este sentido aumenta el nivel de cotizaciones en el régimen general de la Seguridad Social con lo que la tasa de dependencia disminuye. En segundo lugar, la población que llega es población joven que aumenta la tasa de natalidad en Comunidades donde el índice de fecundidad está en valores muy bajos (en algunos casos el más bajo de Europa). Por último, es necesario también señalar que, dada la dificultad de integración, en algunos casos se produce el aumento de situaciones de racismo y xenofobia, sobre todo cuando los inmigrantes no tienen oportunidad de trabajar legalmente y se ven abocados a marginarse en guetos. Para evitar situaciones de este tipo sería necesaria una política económica, social y cultural que favoreciese la integración cuando fuera posible, y en caso contrario la existencia del multiculturalismo. Por ello, como la llegada de inmigrantes es cada vez más numerosa los distintos gobiernos están intentando aplicar diferentes medidas políticas de control, integración y asimilación.

B.- Espacios agrarios, ganadería y explotación forestal en Euskal Herria

Los espacios agrarios actuales en Euskal Herria están configurados en dos grandes conjuntos, uno de predominio agrícola y otro de predominio ganadero. Ambos representan en su evolución fenómenos comunes: retroceso de las tierras cultivadas, intensificación de la producción y aumento de los vendimientos, incremento de la superficie forestal, tendencia a la especialización zonal, disminución de la población rural,...

Las explotaciones agrarias.

El tamaño de las explotaciones agrarias es reducido y oscila entre las 6 hectáreas, en la CAV, y las 16 hectáreas de Navarra y Euskal Herria continental. Por lo tanto, los agricultores/as buscan en muchos casos otras alternativas económicas complementarias en la industria o en los servicios. La pluriactividad afecta a un 38% de estas unidades productivas, que en su mayoría son de carácter familiar.
En las zonas montañosas, además del escaso tamaño de las explotaciones, éstas a veces carecen de propiedad privada; se trata de tierras comunales que poseen en indivisión pastos de bosque (Baja Navarra y Zuberoa). Es similar la

situación de las explotaciones al sur de la divisoria de aguas en las comunidades del valle del Roncal y Salazar.

Las explotaciones agrarias de menos de 5 hectáreas abundan, sobre todo, en Bizkaia y Guipúzcoa, y su producción se orienta fundamentalmente hacia la ganadería y la explotación forestal. La gran propiedad destaca en Navarra y se localiza en los secanos cerealistas de la mitad meridional. Las explotaciones medianas se encuentran en las zonas de policultivo de Álava y de Navarra y en las zonas ganaderas de Euskal Herria continental.

En el caso de las explotaciones ganaderas, el tamaño está en función del número de unidades ganaderas. Las explotaciones con menos de 3 unidades ganaderas tienden a desaparecer, así como aquellas cuyos propietarios tiene ya una edad avanzada. Esta desaparición se produce en beneficio de las que, por su tamaño, se pueden mecanizar.

Las formas tradicionales de explotación indirecta, aparcería y arrendamiento, se han reducido bastante si exceptuamos la aparcería en Navarra.

Otras formas de explotación, de larga tradición, son las cooperativas de servicios agrícolas y de producción, que han garantizado la supervivencia de las explotaciones familiares. Surgieron en Álava y Navarra a comienzos de siglo con el fin de combatir la plaga de la filoxera, y continuaron su expansión en la década de los años 60. Destacan las que están dedicadas a los servicios y comercialización de productos agropecuarios. En la década de los 70 se extendieron también al sector ganadero y a la comercialización de piensos, cereales, patatas...

Existen también otro tipo de asociaciones agrarias, las Sociedades Agrarias de Transformación (SAT), menos rígidas que las cooperativas en cuanto a su organización y obligaciones de los asociados, que día a día van alcanzando una mayor incidencia.

Euskal Herria, desde el litoral cantábrico y los valles pirenaicos hasta la Ribera del Ebro, abarca una variada tipología de espacios agrarios, caracterizados por una gran diversidad de cultivos. Podemos agruparlos en dos principales:

Cultivos de secano.

Se extienden por la Llanada Alavesa y las depresiones prepirenaicas navarras, reduciéndose las tierras incultas y el bosque. En estos lugares el hábitat es concentrado, organizándose el poblamiento rural en torno a aldeas o pueblos de mayor tamaño. Aquí los cultivos herbáceos son muy importantes, sobre todo el cereal (el 61,4% de las tierras de cultivo). En Álava el cereal ocupa el 61,4% de las tierras de cultivo y en Navarra más del 50%. Las comarcas de Valles Alaveses, La Llanada y las cuencas prepirenaicas de Navarra, debido a sus

condiciones climáticas (húmedo-templadas), tiene una larga tradición cerealista. En la actualidad, se alterna el cultivo del cereal con los cultivos forrajeros y las oleaginosas (colza y girasol).
Al sur de las sierras exteriores de Álava y Navarra continúa el secano con cereal y el policultivo mediterráneo. La vid es el cultivo dominante en la Rioja Alavesa, y la trilogía mediterránea (trigo, vid, olivo) en Navarra.

Cultivos de regadío.

Ocupa una extensión del 23% de las tierras cultivadas navarras, y la décima parte de las tierras cultivadas en Álava. Con el fin de aumentar los rendimientos agrícolas, se ha fomentado la extensión del regadío en la Llanada Alavesa. Los cultivos más beneficiados han sido la patata y los cultivos industriales. En Navarra se está orientando hacia la mejora de los equipamientos y los rendimientos, y los productos más importantes son el cereal (maíz), las hortalizas y los frutales.

Zonas ganaderas y pastoriles.

La vertiente septentrional y las zonas montañosas son espacios netamente ganaderos, con un predominio de tierras dedicadas a la producción de hierba, en forma de praderas o como pastizal. Podemos distinguir dos espacios:

a) Comarcas oceánicas. La organización de este espacio agrícola está vinculado estrechamente a las características de la climatología y del medio físico: clima húmedo y templado y relieve de escasa altitud, aunque la topografía es atormentada, con valles estrechos y pronunciadas vertientes.

El caserío como explotación agrícola familiar se fue especializando en la producción ganadera debido a una creciente demanda por parte de un importante mercado regional.
En este espacio agrario se alterna los prados permanentes con el policultivo de productos como el maíz, las leguminosas, los cultivos forrajeros, y, en ocasiones, los frutales. La producción está subordinada, en su mayoría, a la producción ganadera, sobre todo en las comarcas interiores. Sin embargo, en las comarcas de litoral se produce una mayor diversidad de productos debido a la demanda de los mercados urbanos. Además de los cultivos forrajeros, destaca en ellas la producción hortícola, el viñedo para la obtención del chacolí (Bakio y Getaria), los frutales y el cultivo de invernadero.

Esta diversidad se produce también en la Baja Navarra y Lapurdi interior, donde el principal cultivo es el maíz, manteniéndose también las praderas como sustento para la cabaña bovina.

b) La montaña. Es un espacio dominado por los sistemas agro-silvo-pastoriles. La producción está en función de los recursos naturales del bosque y la hierba de los pastizales de altura. El policultivo tradicional cerealista dio paso al cultivo alterno de patata de siembra-cereal-pradera artificial.

En el norte de Navarra los prados naturales y los pastizales son el recurso ganadero más importante. Cada valle constituye una comunidad de montes, cuyos recursos son aprovechados por los vecinos; éstas son estructuras que subsisten en gran parte de las montañas occidentales: en Urbasa, Andia, Aralar y la Parzonería General de Guipúzcoa y Álava (propiedad comunal de los municipios de Segura, Zegama, Idiazabal, Zerain...).

Con la llegada del otoño, los rebaños descienden desde las montañas hasta los prados situados en el fondo de los valles. La modernización no ha evitado que se produzca la trashumancia. Así, los rebaños de los valles del Roncal y Salazar disponen de pastos en las Bárdenas Reales, completados mediante el alquiler de hierbas en las corralizas cerealistas de la Ribera del Ebro. Los rebaños de las sierras occidentales descienden desde los valles (desde el Gorbea hacia Larrabetzu, desde las campas de Urbia hasta el Goierri guipuzcoano), para pasar el invierno en los caseríos. En Euskal Herria continental, los rebaños se dirigen hacia los fondos de los valles o la depresión de Adour. Con la llegada de la primavera, los rebaños regresan a los pastos de montaña.

3.- Define los siguientes conceptos. (elige 3)

- **Aparcería**
- **Inflación**
- **Pesca de altura**
- **Centro urbano histórico**
- **Crecimiento natural de la población**
- **Penillanura**

Respuesta:

- **Aparcería:** Régimen de tenencia de la tierra que pone en relación a su propietario con quien la trabaja. Se trata de un contrato variable, por el cual el trabajador paga al propietario una parte proporcional de la cosecha obtenida o de la producción ganadera.
Generalmente el propietario pone la tierra, la maquinaria, las semillas, paga los impuestos..., y el aparcero pone su trabajo. En España estaba extendida en Baleares, Cataluña, Aragón, Navarra, Valencia, Murcia, Andalucía, Extremadura y Castilla la Mancha. Actualmente ha disminuido mucho ya que se adecuaba más a una economía cerrada o de subsistencia.

- **Inflación:** Es una subida general y sostenida de los precios. Una situación inflacionaria perjudica a los asalariados, pensionistas y rentistas ya que ni los sueldos o pensiones ni las rentas que reciben suben al mismo ritmo que el índice general de precios.

- Pesca de altura: Se realiza en alta mar con embarcaciones y técnicas desarrolladas que permiten la obtención de mayores capturas. Los barcos necesitan grandes equipamientos que deben ser diferentes en función de los peces buscados. Estas faenas requieren la permanencia de varios días en alta mar siguiendo los bancos y migraciones de los peces. Actualmente se identifican la pesca de altura y la pesca lejana o gran pesca en la que el pescador partía para una campaña de seis meses a las costas de Islandia o Terranova; los dos tipos constituyen aspectos de la pesca industrial que se diferencian muy poco. La venta de las capturas se realiza siempre en la lonja de los puertos. En España la pesca de altura se hace en caladeros como los Terranova, Canadá o la costa africana.

- Centro urbano histórico: El casco antiguo o centro histórico se corresponde con la parte de la ciudad preindustrial, de época medieval o moderna, aunque algunas ciudades aún conservan restos de murallas o edificaciones romanas. El plano suele ser irregular, y los edificios son antiguos y de pocas plantas, en muchos casos bastante deteriorados. El casco antiguo de las ciudades españolas presenta un uso mixto, por un lado, y en razón de su accesibilidad, a partir de los procesos de renovación de calles y edificios de la segunda mitad del XIX, acoge buena parte del centro comercial y de negocios; por otro, también consta de áreas residenciales, en las que contrastan barrios de calles y casas deterioradas, ocupados por grupos sociales de edad avanzada y bajos ingresos o marginados, y barrios de prestigio y calidad en calles y edificios renovados o rehabilitados, ocupados por grupos sociales de más renta.

- Crecimiento natural de la población: Es la diferencia que hay entre el número de nacimientos y el de fallecimientos en una población determinada. El crecimiento natural o vegetativo es el resultado de esa diferencia y se expresa en porcentaje. Puede resultar positivo (la población crece) o negativo (la población desciende). La tasa de crecimiento vegetativo se considera alta si supera el 2%, moderada si se encuentra entre el 1% y el 2%, y baja si es inferior al 1%.

- Penillanura: Forma de relieve que suele ocupar grandes extensiones y que, por efecto de la erosión, presenta una superficie suavemente ondulada, sin apenas diferencia de altura entre los valles y los interfluvios. Está formada por materiales antiguos y erosionados.
En los países templados se reconocen por la regularidad de las superficies, los interfluvios tienen todos la misma altitud, los valles han tallado de nuevo estas penillanuras que datan del Terciario. Su formación corresponde al final del ciclo

de erosión que se completa con la destrucción total de los relieves con el resultado de un relieve monótono y poco elevado sobre el nivel de base.

4.- A la vista de la tabla y el gráfico adjuntos contesta a las siguientes cuestiones:
a) Comenta la tendencia del índice de mortalidad. ¿Podrías explicar por qué se eleva en los años finales?
b) Comenta la tendencia del índice de natalidad. ¿Podrías explicar por qué se produce una caída pronunciada a partir de 1975?
c) Comenta la evolución del crecimiento vegetativo a lo largo del periodo y haz un pronóstico razonado para los próximos años.

Evolución de los índices de natalidad y mortalidad en España.

Año	Índice de natalidad *	Índice de mortalidad *
1940	24,3	16,5
1945	22,8	12,1
1950	20,0	10,8
1955	20,4	9,2
1960	21,6	8,6
1965	21,1	8,4
1970	19,5	8,3
1975	18,8	8,4
1980	15,0	7,9
1985	11,9	8,1
1990	10,3	8,6
1995	9,3	8,8
2000	9,9	9,0

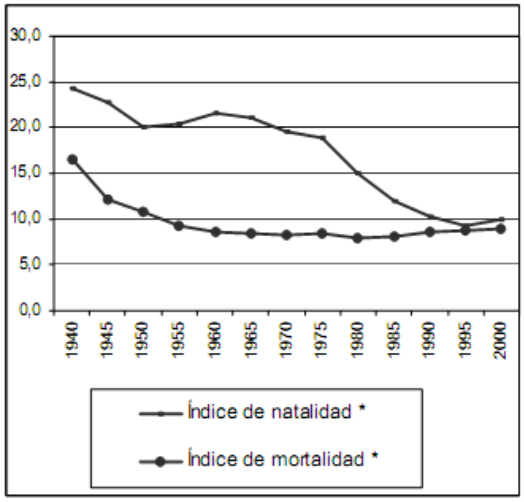

*** En tanto por mil**

Respuesta:

a) Comenta la tendencia del índice de mortalidad. ¿Podrías explicar por qué se eleva en los años finales?

La tendencia de la tasa de mortalidad es descendente hasta 1980, año en el que comienza a ascender ligeramente. El descenso más importante se produce desde 1940 hasta 1960, los factores que lo explican son fundamentalmente el fin de la Guerra civil y la salida de la posguerra, a finales de los años 50 la mejora de la alimentación, de la sanidad y de la higiene favorecen esta reducción de la mortalidad.

Durante los años 60, 70 y principios de los 80, los valores se mantienen bajos. Es el período en el que se extienden las mejoras sanitarias y aumenta el nivel de vida y con ello mejora la alimentación y la calidad de vida. Esto tiene como consecuencia un aumento importante de la esperanza de vida y el envejecimiento progresivo de la población al no corresponderse con un aumento de la natalidad.

A partir de los años 90 se produce un ligero aumento en la tasa de mortalidad que pasa de 7,9 en 1980 a 9,0 en el año 2000. Las causas de este leve incremento no son otras que el envejecimiento de la población producido a consecuencia del aumento de la esperanza de vida.

b) Comenta la tendencia del índice de natalidad. ¿Podrías explicar por qué se produce una caída pronunciada a partir de 1975?

La tasa de natalidad desciende de forma importante hasta 1950 año en el que se sitúa en un 20 por mil, esta reducción se debe a las dificultades económicas de la posguerra española.
En 1955 y 1960 se produce el denominado baby-boom, el aumento de natalidad típico después de una guerra, sin embargo esta tendencia se invierte muy rápidamente a partir de 1965. El descenso es lento desde 1965 hasta finales de los años 70, y muy fuerte desde 1980 hasta 1995, los factores explicativos de esta gran reducción de la natalidad son el aumento del nivel de vida, la incorporación de la mujer al mercado laboral, la extensión de los anticonceptivos, etc. Además hay que tener en cuenta la crisis económica, los altos índices de paro (que coinciden con la llegada de las generaciones del "baby boom" al mercado laboral), la carestía de la vivienda, el retraso de los jóvenes en abandonar la casa familiar, en la edad de contraer matrimonio o tener hijos,...
Esta tendencia se ralentiza y se invierte en el año 2000 en el que comienza ascender ligeramente gracias a los inmigrantes que en la primera generación mantienen unos índices elevados de fecundidad.

c) Comenta la evolución del crecimiento vegetativo a lo largo del periodo y haz un pronóstico razonado para los próximos años.

El crecimiento vegetativo es importante desde 1955 hasta 1975, es decir los años en los que aumenta la natalidad y desciende la mortalidad por las causas que se han explicado en los apartados anteriores. A partir de 1975 el crecimiento vegetativo comienza a descender hasta llegar en 1995 a un 0,5 por mil, esto es un crecimiento casi nulo que pone en peligro el relevo generacional y que tienen importantes consecuencias demográficas y económicas para el país: envejecimiento de la población, dificultades para mantener el denominado "Estado de bienestar" (pensiones, enseñanza, sanidad, etc.).

INDICADORES DE EVALUACIÓN:

- Contesta a las preguntas con precisión y de una manera coherente y organizada.
- Expresa su opinión de manera bien argumentada.
- Sabe interpretar y comentar gráficos.
- Sitúa en un mapa las unidades de relieve de la Península Ibérica.

CALIFICACIÓN POR PREGUNTAS:

Preguntas 1, 2 y 4: 3 puntos
Pregunta 3: 1 punto

CORRESPONDENCIA ENTRE LAS PREGUNTAS DE LA PRUEBA Y LOS INDICADORES DE CONOCIMIENTO

PREGUNTA	INDICADORES DE CONOCIMIENTO
1	G.2., 1.1., 3.1.
2	5.1., 5.3. / 4.1., 4.2., 4.3.
3	3.1., 4.1., 5.2.
4	G.2., 1.2., 5.1.